1 mal 9

Das schaffe ich!



© Lernbiene ... schöne Unterrichtsmaterialien! - www.lernbiene.de

Die 9er-Reihe

Male alle Kästchen mit Zahlen der 9er-Reihe aus!

1	2	3	4	5	6	7	8	9	10
11	12	13	14	15	16	17	18	19	20
21	22	23	24	25	26	27	28	29	30
31	32	33	34	35	36	37	38	39	40
41	42	43	44	45	46	47	48	49	50
51	52	53	54	55	56	57	58	59	60
61	62	63	64	65	66	67	68	69	70
71	72	73	74	75	76	77	78	79	80
81	82	83	84	85	86	87	88	89	90

© Lernbiene ... schöne Unterrichtsmaterialien! - www.lernbiene.de

Die 9er-Reihe

Male das Kästchen mit dem richtigen Ergebnis an!

7 • 9 =	45	63	23	1 • 9 =	9	16	54
3 • 9 =	27	19	39	6 • 9 =	32	54	25
2 • 9 =	89	14	18	3 • 9 =	34	27	18
9 • 9 =	67	81	89	5 • 9 =	45	34	60
8 • 9 =	34	72	18	7 • 9 =	16	73	63
5 • 9 =	45	93	14	2 • 9 =	18	26	73
10 • 9 =	19	9	90	4 • 9 =	54	36	62

Rechne die Aufgaben aus!

2 • 9 = _____	9 • 9 = _____	5 • 9 = _____
7 • 9 = _____	1 • 9 = _____	4 • 9 = _____
5 • 9 = _____	8 • 9 = _____	7 • 9 = _____
3 • 9 = _____	6 • 9 = _____	9 • 9 = _____
10 • 9 = _____	4 • 9 = _____	3 • 9 = _____

© Lernbiene ... schöne Unterrichtsmaterialien! - www.lernbiene.de

Die 9er-Reihe

Male alle Zahlen, die zur 9er-Reihe gehören, an!

Bitte verwende einen Buntstift!

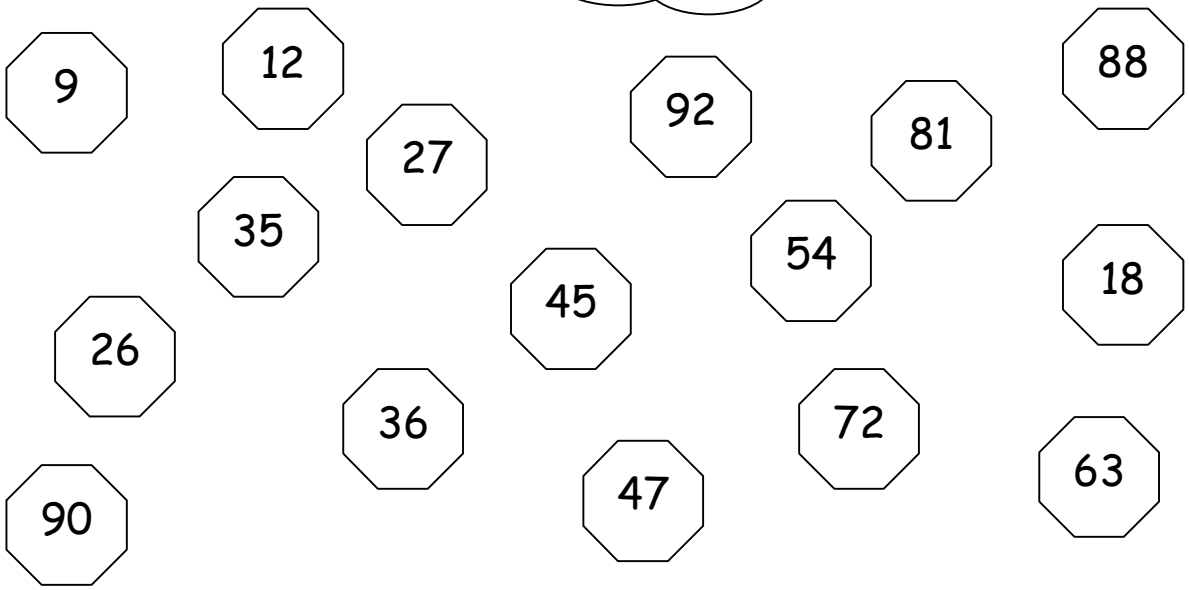

Male die Rechnung und das richtige Ergebnis in derselben Farbe an!



7 • 9 =		54
6 • 9 =		9
2 • 9 =		63
3 • 9 =		90
5 • 9 =		18
1 • 9 =		45
10 • 9 =		36
4 • 9 =		27
9 • 9 =		72
8 • 9 =		81

© Lernbiene ... schöne Unterrichtsmaterialien! - www.lernbiene.de

Die 9er-Reihe

	• 9 = 18			• 9 = 72
	• 9 = 54			• 9 = 54
	• 9 = 72			• 9 = 9
	• 9 = 81			• 9 = 81
	• 9 = 90			• 9 = 27
	• 9 = 9			• 9 = 90
	• 9 = 36			• 9 = 36
	• 9 = 45			• 9 = 72
	• 9 = 27			• 9 = 45
	• 9 = 63			• 9 = 18

© Lernbiene ... schöne Unterrichtsmaterialien! - www.lernbiene.de

Die 9er-Reihe

Kontrolliere die Rechnungen!

richtig … r
falsch … f

2 • 9 = 18			4 • 9 = 45	
4 • 9 = 36			1 • 9 = 9	
7 • 9 = 54			3 • 9 = 27	
6 • 9 = 81			8 • 9 = 72	
1 • 9 = 9			1 • 9 = 1	
3 • 9 = 36			2 • 9 = 18	
10 • 9 = 90			6 • 9 = 54	
7 • 9 = 72			8 • 9 = 72	
5 • 9 = 45			5 • 9 = 36	
9 • 9 = 81			1 • 9 = 19	
1 • 9 = 19			9 • 9 = 81	
2 • 9 = 27			7 • 9 = 63	

© Lernbiene … schöne Unterrichtsmaterialien! - www.lernbiene.de

Die 9er-Reihe

Rechnungen für Geübte!

2 • 9 + 3 • 9 =			9 • 9 - 3 • 9 =	
5 • 9 + 1 • 9 =			8 • 9 - 5 • 9 =	
7 • 9 + 3 • 9 =			10 • 9 - 6 • 9 =	
6 • 9 + 2 • 9 =			7 • 9 - 1 • 9 =	
4 • 9 + 5 • 9 =			6 • 9 - 5 • 9 =	
2 • 9 + 8 • 9 =			4 • 9 - 2 • 9 =	

Schreibe die Zahlen der 9er-Reihe in die Dreiecke!



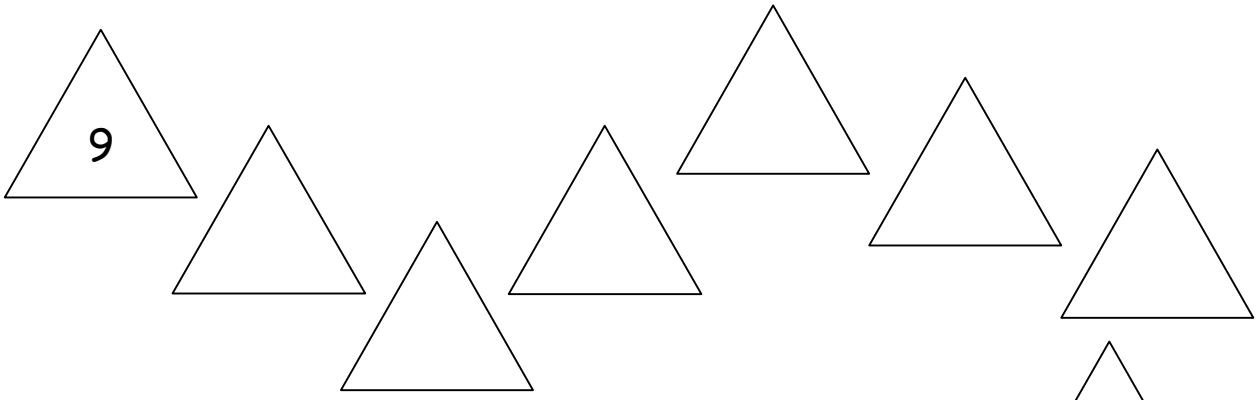

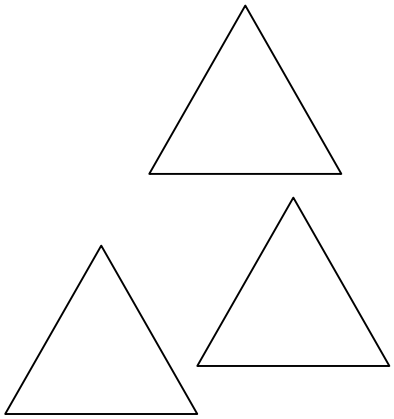

© Lernbiene ... schöne Unterrichtsmaterialien! - www.lernbiene.de

Die 9er-Reihe



1. Melanie hat in ihrem Federmäppchen 9 Stifte. Tobias hat 2-mal so viele. Wie viele Stifte besitzt Tobias?



R: _____

A: _____

2. Bernd kauft 3 Modellautos. Jedes Auto kostet 9 Euro. Wie viel Euro muss er bezahlen?

R: _____

A: _____

3. Daniels Apfelbaum trägt 9 Äpfel. Der Apfelbaum des Nachbarn trägt 8-mal so viele. Wie viele Äpfel kann der Nachbar ernten?

R: _____

A: _____

4. Niki streicht 9 Zaunpfosten an. Sein großer Bruder Tom streicht 4-mal so viel. Wie viele Zaunpfosten streicht Tom an?



R: _____

A: _____

© Lernbiene ... schöne Unterrichtsmaterialien! - www.lernbiene.de